_____國小　_____學年度　第____學期

翰林版　數學領域　範圍：第 3 單元（2）

一　年　_____班　_____號　姓名：_____　得分：_____

一、看圖填填看：共 16 分

1. 13－7
   ＝（　　）

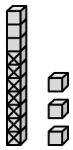

2. 17－9
   ＝（　　）

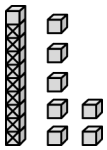

3. 12－3
   ＝（　　）

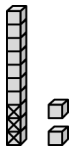

4. 13－4
   ＝（　　）

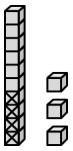

二、看圖寫出算式和答案：共 12 分

1.

（　　）＋（　　）＝（　　）

2.

（　　）＋（　　）＝（　　）

三、先畫〇再畫掉，做做看：共 12 分

1. 12－4＝（　　）

2. 14－5＝（　　）

3. 16－9＝（　　）

四、有幾隻小鳥？連到正確的算式，再算出答案：共 8 分

①有 10 隻小鳥，又飛來 7 隻。	•	• ㄅ 10＋7＝（　　）
②有 15 隻小鳥，飛走了 7 隻。	•	• ㄆ 15－7＝（　　）

五、勾選題：共 28 分

1. 下面算式的答案和 8＋7 答案一樣的打∨。
   (1) □ 10＋4　(2) □ 10＋5
2. 下面算式的答案和 7＋6 答案一樣的打∨。
   (1) □ 9＋4　(2) □ 8＋4
3. 下面心算卡的答案是 12 的打∨。
   (1) □ 8＋4　(2) □ 8＋5
   (3) □ 9＋4　(4) □ 7＋5
   (5) □ 9＋3　(6) □ 6＋5
4. 下面心算卡的答案是 6 的打∨。
   (1) □ 15－8　(2) □ 14－8
   (3) □ 13－7　(4) □ 12－6

六、看圖填填看：共 16 分

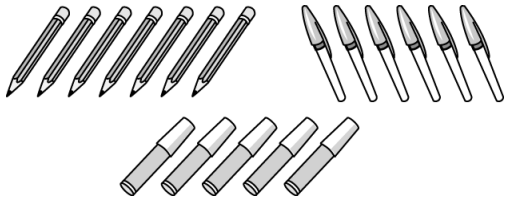

1. 和 共有（　　）枝。

   □＋□＝□

2. 和 共有（　　）枝。

   □＋□＝□

七、寫出算式做做看：共 8 分

▲熊媽媽抓了 8 條魚，熊爸爸抓了 3 條魚，他們共抓了幾條魚？

算式：

（　　）條魚